ÇARPMA PROBLEMLERİ



Benekli
(3L)



Sarıkız
(4L)



Kara
(5L)

Yukarıda bir çiftlikteki üç ineğin günlük verdikleri süt miktarları gösterilmiştir.

1- Benekli ve Kara bir haftada kaç litre süt verirler?

2- Benekli ve Sarıkız bir haftada kaç litre süt verirler ?

3- Sarıkız ve Kara beş günde kaç litre süt verirler?

4- Çiftlikteki üç inek 10 günde birlikte kaç litre süt verirler?

ÇARPMA PROBLEMLERİ


Hakan


Handan


Muharrem


Zehra

(Yukarıda dört arkadaşın isimleri verilmiştir.)

1- Sadece kızların isimleri üçer kez yazılırsa toplam kaç harf yazılmış olur?

2- Sadece erkeklerin isimleri ikişer kez yazılırsa toplam kaç harf yazılmış olur?

3- İsmi "H" harfi ile başlayanların isimleri beşer kez yazılırsa toplam kaç harf yazılmış olur?

4- Bütün arkadaşların isimleri ikişer kez yazılırsa toplam kaç hece yazılmış olur?

ÇARPMA PROBLEMLERİ

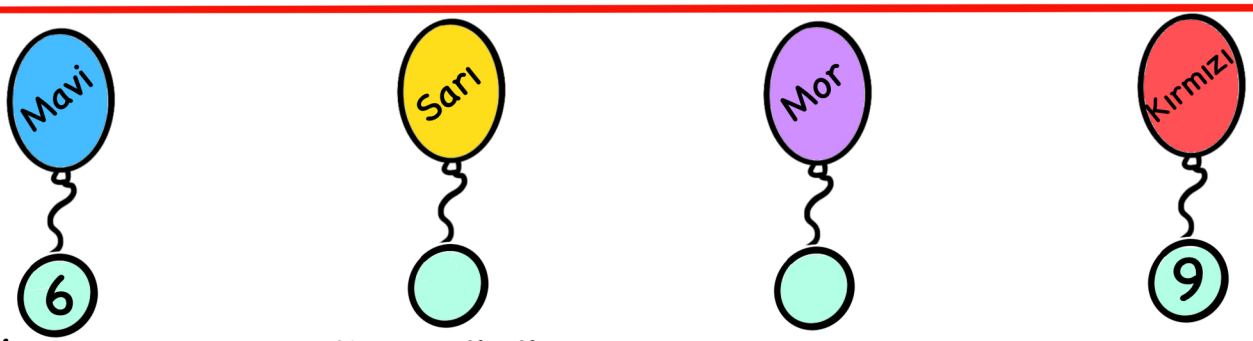

(Yukarıda bir doğum günü partisi için kullanılan balon sayıları verilmiştir.)

1- Sarı balonlardan mavi balonların 4 katından 5 eksik kullanılmıştır. Buna göre kaç tane sarı balon kullanılmıştır?

2- Mor balonlardan kırmızı balonların 2 katından 10 fazla kullanılmıştır. Buna göre kaç tane mor balon kullanılmıştır?

3- Partiye kırmızı balonların 3 katından 7 eksik yeşil balon getirilirse kaç tane yeşil balon olur?

4- Partiye mavi balonların 2 katından 5 fazla pembe balon getirilirse kaç tane pembe balon olur?

ÇARPMA PROBLEMLERİ

1- Bir manav her kasaya 7 karpuz yerleştirmiştir. 4 kasayı dolduran manav karpuzlardan 5 tanesini satmıştır. Geriye kaç karpuz kalmıştır?

2- Elif 72 sayfalık kitabından 6 gün boyunca her gün 5 sayfa okumuştur. Elif'in okuması gereken kaç sayfa kitap kalmıştır?

3- 10 katlı bir apartmanın her katında 4 daire vardır. Bu dairelerden 6 tanesi boştur. Buna göre apartmanda kaç tane dolu daire vardır?

4- Bera'nın yaşı Defne'nin yaşının 4 katından 2 fazladır. Defne 1 yaşında olduğuna göre Bera kaç yaşındadır?